1-часть: Каждое задание оценивается по 1,3 баллов.

1. Какое озеро находится на севере Южноамериканского материка?
A) Титикака B) Поопо C) Маракайбо D) Патус

2. Какой регион показан на карте под номером 6?

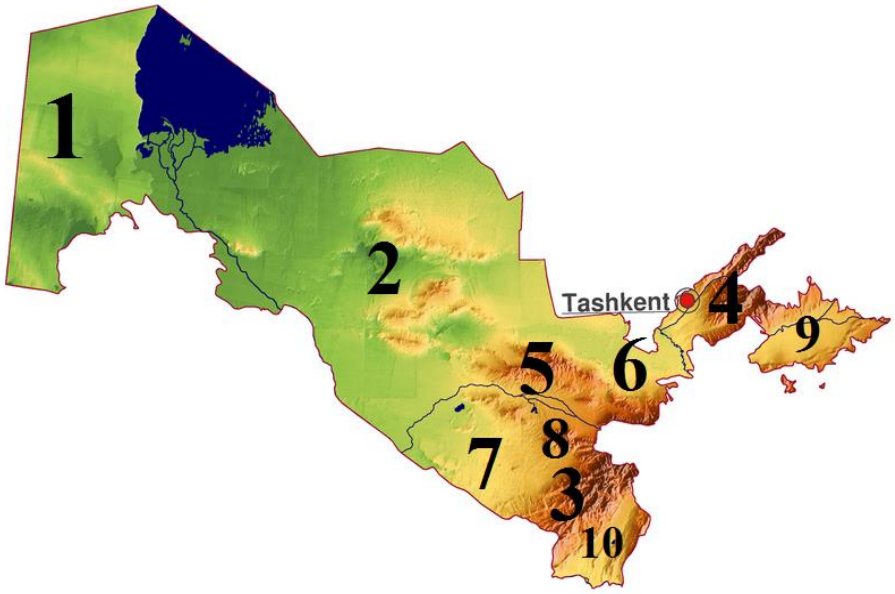

A) Устюрт
B) Мирзачуль
C) Кызылкум
D) Каршинская пустыня

3. Какой экономический район занимает последнее место по численности населения в нашей стране?
A) Южный B) Мирзачуль C) Зарафшан D) Нижнее Амударье

4. Внимательно рассмотрите изображение и определите, какая природная зона на ней изображена.



A) зона влажных экваториальных лесов
B) зона сезонно влажных тропических лесов
C) зона саванн и редколесий
D) зона полупустыни и пустыни

5. В какой природной зоне не происходит смены сезонов?
A) зона влажных экваториальных лесов
B) зона сезонно влажных тропических лесов
C) зона саванн и редколесий
D) полупустыни и пустыни

6. В каком ответе показаны географические координаты точки A, представленной на схеме?

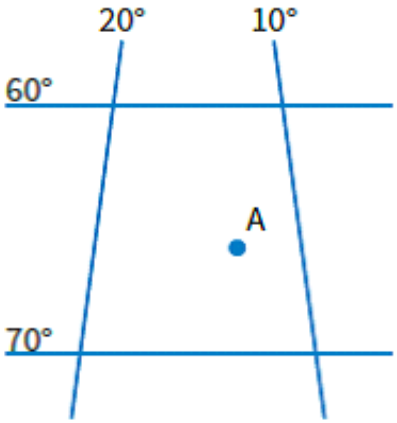

A) 66° северной широты и 13° восточной долготы
B) 66° южной широты и 13° западной долготы
C) 66° северной широты и 13° западной долготы
D) 66° южной широты и 13° восточной долготы

7. Какой из следующих масштабов является самым маленьким?
A) 1:2000000 B) 1:200000 C) 1:1500000 D) 1:90000

8. В какой части Германии в основном проживают католики?
A) на севере B) на юге C) на западе D) на востоке

9. Какая климатическая зона Северной Америки охватывает территории между 40° с. ш. и Мексиканским заливом?
A) умеренная B) субтропическая C) тропическая
D) субэкваториальная

10. В какой области расположен золотой рудник Мурунтау?
A) Бухара B) Фергана C) Самарканд D) Навои

2-часть: Каждое задание оценивается по 2,4 баллов.

11. Каким требованиям должен соответствовать населённый пункт, чтобы получить статус города в Узбекистане?
A) население должно составлять 5 тысяч и более, 2/3 населения должны составлять рабочие, служащие и их семьи
B) население должно составлять 7 тысяч и более, 2/5 населения должны составлять рабочие, служащие и их семьи
C) население должно составлять 7 тысяч и более, 2/3 населения должны составлять сельскохозяйственные работники и их семьи
D) население должно составлять 7 тысяч и более, 2/3 населения должны составлять рабочие, служащие и их семьи

12. В какой части Мирзачульского экономического района разводят каракулевых овец?
A) на юго-восточных горных пастбищах
B) на юго-западных горных пастбищах
C) на северо-западных пустынных пастбищах
D) на северо-восточных пустынных пастбищах

13. Выберите правильный ряд городов, в которых построены заводы по производству азотных удобрений и химического волокна из природного газа.
A) Андижан и Наманган B) Алмалык и Ангрен
C) Ташкент и Самарканд D) Фергана и Навои

14. Какая часть Казахстана граничит с Каспийским морем?
A) северо-западная B) северо-восточная
C) юго-западная D) юго-восточная

15. В каких регионах сильны муссонные ветры?
A) в Северной и Западной Азии B) в Северной и Восточной Америке
C) в Восточной и Южной Азии D) в Западной Африке

16. Отметьте правильный ответ, где даны характерные особенности природной зоны, обозначенной на карте цифрой 2.

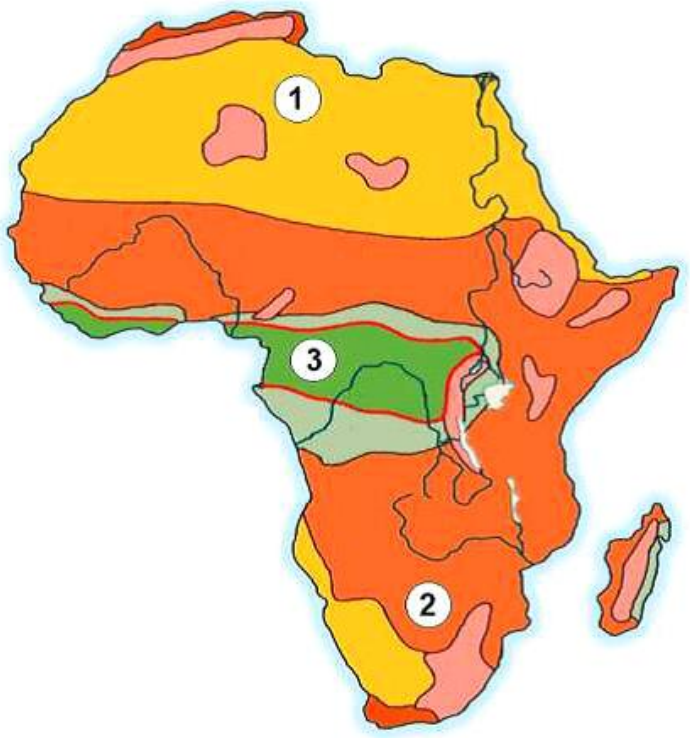

A) постоянная зелень, многоярусность (слойные) и густота
B) дневная температура воздуха 40–50°C, ночью понижается до 0°C, в результате чего в горных породах появляются трещины, и наблюдается сильное выветривание
C) смена сухих и влажных сезонов, повсюду обилие одиночных деревьев, кустарники и лугов
D) тепло и высокая влажность круглый год

17. Где наблюдается самая тёплая вода в мировом океане?
A) в Аравийском море B) в Бенгальском заливе
C) в Южно-Китайском море D) в Персидском заливе

18. Какие моря соединяет Кильский канал?
A) Норвежское и Северное B) Норвежское и Балтийское
C) Северное и Балтийское D) Северное и Ирландское

19. Какие посёлки относятся к числу появившихся в местах развития промышленности и освоения природных ресурсов?
A) Томдыбулок, Искандар, Яккабог, Усмат, Зафар
B) Помук, Кукдала, Зомин, Ханка, Вадил
C) Пахтаабад, Кегейли, Шахимардан, Тахтакупир, Шовот
D) Искандар, Кегейли, Улугбек, Газган, Зомин

20. В каком из перечисленных городов имеются заводы по производству суперфосфатов, электротехнического машиностроения и текстильного машиностроения?
A) Коканд B) Кувасай C) Фергана D) Маргилан

21. Какой из следующих факторов был учтен при создании Австрии как федеративного государства?
A) особенности исторического развития B) огромные размеры территории
C) разбросанная территория D) многонациональное население

22. Укажите правильный список основных рек Восточной Сибири. 1) Колыма; 2) Днепр; 3) Мезень; 4) Урал; 5) Лысый; 6) Хатанга; 7) Обь; 8) Кура.
A) 3; 4; 5 B) 1; 7 C) 1; 6 D) 2; 6; 8

23. Прочитайте текст.
Это озеро имеет глубину от 4 до 7 метров. Его площадь изменяется в зависимости от количества осадков и разлива реки Шари. Иногда в период дождей площадь озера увеличивается в два раза. В сухой период его берега сокращаются.
По данным в тексте, определите, к какому озеру из приведенного рисунка относится описание, указав номер.
A) 3 B) 6 C) 7 D) 8

24. Из следующих выберите ответ, в котором правильно отмечены равнины.
1) Средняя Сибирь; 2) Амазонка; 3) Западная Сибирь; 4) Бразилия; 5) Анды; 6) Кордильеры; 7) Восточная Европа; 8) Туран; 9) Тяньшань.
A) 1; 3; 5 B) 1; 2; 9 C) 2; 4; 6 D) 2; 7; 8

25. В каких странах континента доля детей ниже, чем у пожилых людей?
A) в Азии B) в Америке C) в Африке D) в Европе

3-часть: Каждое задание оценивается по 3,4 баллов.

26. Какой процесс сильно развивается в зоне, выделенной на карте?



A) урбанизация B) депопуляция C) заболачивание D) опустынивание

27. Прочтите текст.

Доля атомных электростанций в структуре вырабатываемой страной электроэнергии составляет почти 80%. По этому показателю данное государство занимает первое место в мире.
Определите, о какой стране идет речь.
A) США B) Франция C) Россия D) Япония

28. Прочтите текст.
3/5 населения области проживает в сельской местности. Хотя доля трудоспособного населения в общей численности людей ниже среднего по стране, рабочей силы для экономического роста достаточно. Явные различия в расселении населения связаны с природными условиями и способами ведения хозяйства. Растениеводство составляет 75% валовой продукции сельского хозяйства.
Определите, о какой области идет речь.
A) Фергана B) Самарканд C) Андижан D) Кашкадарья

29. Какие формы рельефа преобладают в восточных и центральных частях континентальных штатов США?
A) горы B) впадины C) возвышенности D) равнины

30. Прочтите текст.
70% территории страны занимают равнины, расположенные в умеренной, субарктической и арктической климатических зонах. Более 70% территории страны недостаточно обеспечено агроклиматическими ресурсами для земледелия.
Определите, о какой стране идет речь.
A) США B) Канада C) Россия D) Китай

31. Какая из следующих стран имеет прямой выход к двум океанам?
A) Мадагаскар B) Коста-Рика C) Турция D) Мьянма

32. Какая страна специализируется на субтропическом сельском хозяйстве?
A) Великобритания B) Италия C) Германия D) Франция

33. Если температура воздуха в точке D составляет +2°C, давление в точке A — 730 мм Hg, а абсолютная высота точки C — 900 м, то определите температуру воздуха в точке B.

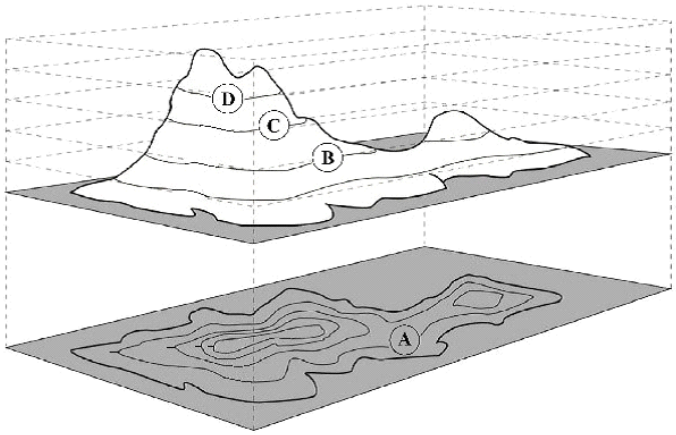

A) + 4^0 C B) +$7{,}6^0$ C C) +$3{,}6^0$ C D) +$5{,}6^0$ C

34. Прочтите текст.
Сырьевая база богата и разнообразна. При этом используются различные полезные ископаемые, промышленные отходы, древесину, воду и даже воздух. Возможность использования различных видов сырья позволяет строить предприятия этой отрасли повсюду. Однако высокое потребление энергии

и воды, а также сильное негативное влияние на природу делают нежелательным строительство таких предприятий везде.

Определите, о какой отрасли промышленности идет речь.

A) деревообрабатывающая промышленность
B) черная металлургия
C) химическая промышленность
D) автомобилестроение

35. По какой характеристике транспортной сети лидируют США, Россия, Канада, Китай, Саудовская Аравия?

A) по длине нефтепроводов
B) по длине газопроводов
C) по длине внутренних водных транспортных путей
D) по общей протяженности автомобильных дорог

36. Прочитайте текст.

Это название зоны на языке индийцев означает "бесплодная земля". В этой зоне в условиях субтропического климата образуются плодородные красные ферралитные почвы. Растительность — в основном травы, среди которых преобладают чалов, дикий тростник и другие. Природные формы жизни включают несколько видов лам, а также птиц таких как страус нанду.

На основе информации, представленной в тексте, определите, к какой природной зоне относится эта информация, указанной на следующей карте.

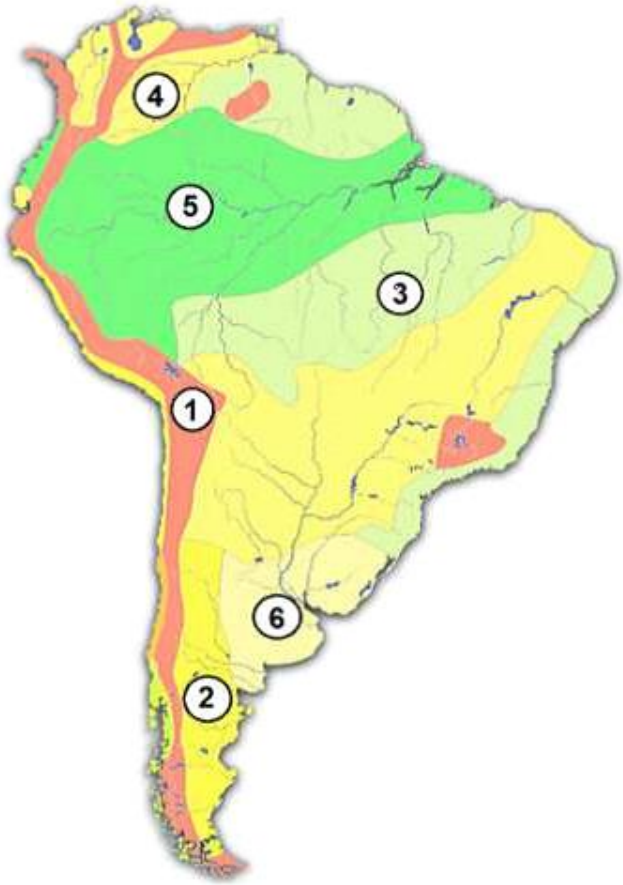

A) 3 B) 4 C) 5 D) 6

37. Какая общая демографическая характеристика объединяет страны Германии, Италии, Украины, Сербии, Болгарии и Японии?

A) происходит процесс демографического кризиса
B) происходит процесс «демографического взрыва»
C) страны с наибольшим процентом детей в возрастной структуре населения
D) страны с низкой долей женщин в населении

38.Если звук, посланный эхолотом на 4-ю горизонталь озера, изображенного на картинке, возвращается через 8 секунд, определите сколько метров составляет расстояние между горизонтальными линиями на рисунке.

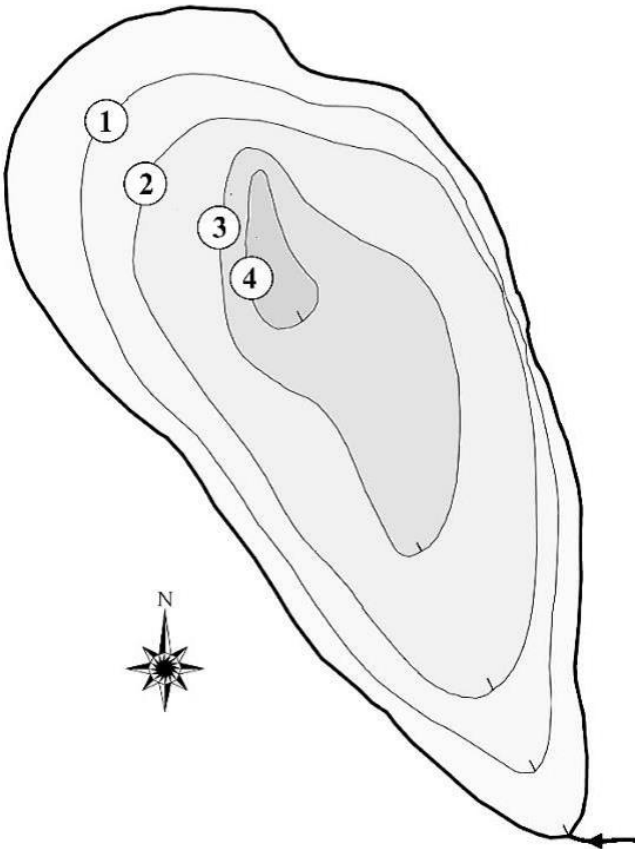

A) 1000 м B) 1500 м C) 2000 м D) 2500 м

39. Какие из следующих основных изменений произошли в архейскую эпоху?
1) образовался каменный уголь; 2) образовались молодые горы; 3) появились нынешние старые горы; 4) появились простые бактерии; 5) формируются климатические районы; 6) появились водоросли; 7) появились гигантские динозавры 8) образовались природные зоны.
A) 1; 5 B) 2; 8 C) 4; 6 D) 3; 7

40. В каком климатическом регионе жаркое влажное лето и теплая сухая зима?
A) умеренный B) субтропический C) тропический D) субэкваториальный