1-часть: Каждое задание оценивается по 1,3 баллов.

1. С каким государством Великобритания имеет сухопутную границу?
A) Ирландия B) Дания C) Франция D) Исландия

2. Какая река образует самый глубокий и узкий каньон в мире — Большой Каньон?
A) Колумбия B) Фрейзер C) Колорадо D) Святой Лаврентий

3. Какие из следующих координат точки D, изображённой на схеме, указаны правильно?

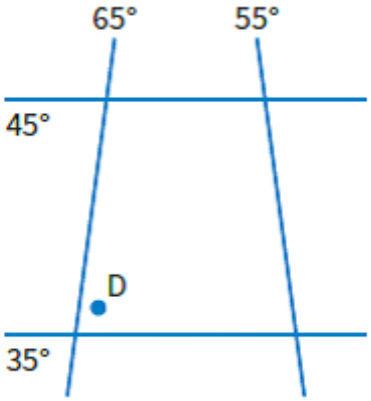

A) 36° северной широты и 64° восточной долготы B) 36° южной широты и 64° западной долготы
C) 36° северной широты и 64° западной долготы D) 36° южной широты и 64° восточной долготы

4. Какой климатический регион, выделенный на карте, указан правильно?

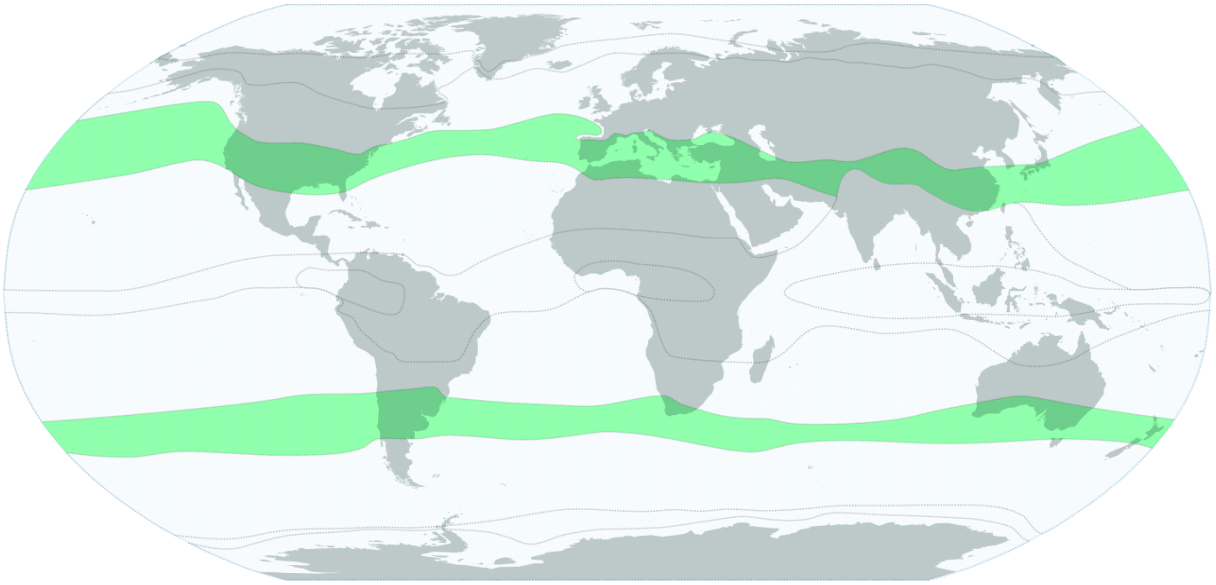

A) умеренный B) субтропический C) тропический D) субэкваториальный

5. Какая из следующих отраслей промышленности перерабатывает отходы цветной металлургии?
A) деревообрабатывающая промышленность B) чёрная металлургия
C) химическая промышленность D) автомобилестроение

6. В каком городе находится крупное предприятие чёрной металлургии — Узбекский металлургический завод?
A) Чирчик B) Янгиюль C) Алмалык D) Бекабад

7. Какой из следующих городов считается центром гончарного искусства?
A) Кувасай B) Коканд C) Маргилан D) Риштан

8. Какое полезное ископаемое добывают на месторождении Маржонбулок?
A) серебро B) мрамор C) золото D) молибден

9. Какая страна является лидером по производству пшеницы?
A) Китай B) Индия C) Россия D) США

10. В какой части Казахстана проживают узбеки?
A) северной B) южной C) западной D) восточной

2-часть: Каждое задание оценивается по 2,4 баллов.

11. Какие города развивались на основе освоения новых земель и переработки сельскохозяйственного сырья?
A) Янгиюль, Гулистан, Янгиер B) Ангрен, Бекабад, Алмалык
C) Чирчик, Навои, Учкудук D) Тахиаташ, Зарафшан, Чирчик

12. Отметьте правильный ответ, где даны характерные особенности природной зоны, обозначенной на карте цифрой 1.

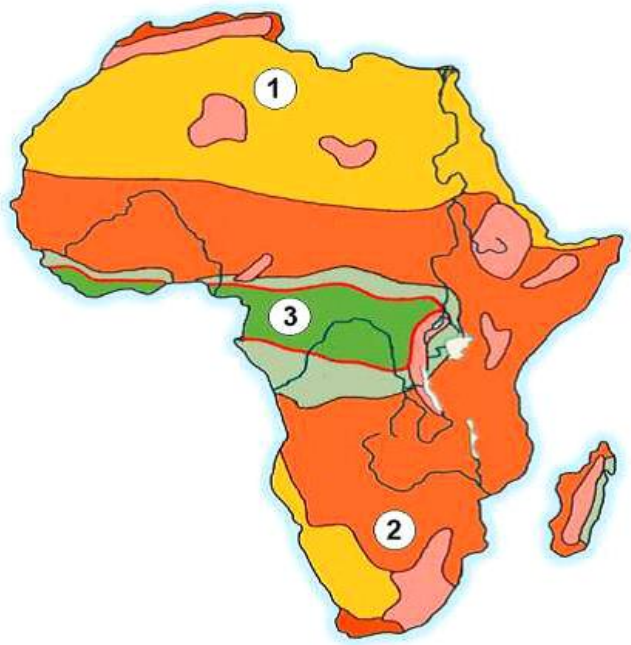

A) постоянная зелень, многоярусность (многослойные) и густота
B) дневная температура воздуха 40–50°C, ночью понижается до 0°C, в результате чего в горных породах появляются трещины, и наблюдается сильное выветривание
C) смена сухих и влажных сезонов, повсюду обилие одиночных деревьев, кустарники и лугов
D) тепло и высокая влажность круглый год

13. Какие номера на карте обозначают самые экономически отсталые аграрные страны?

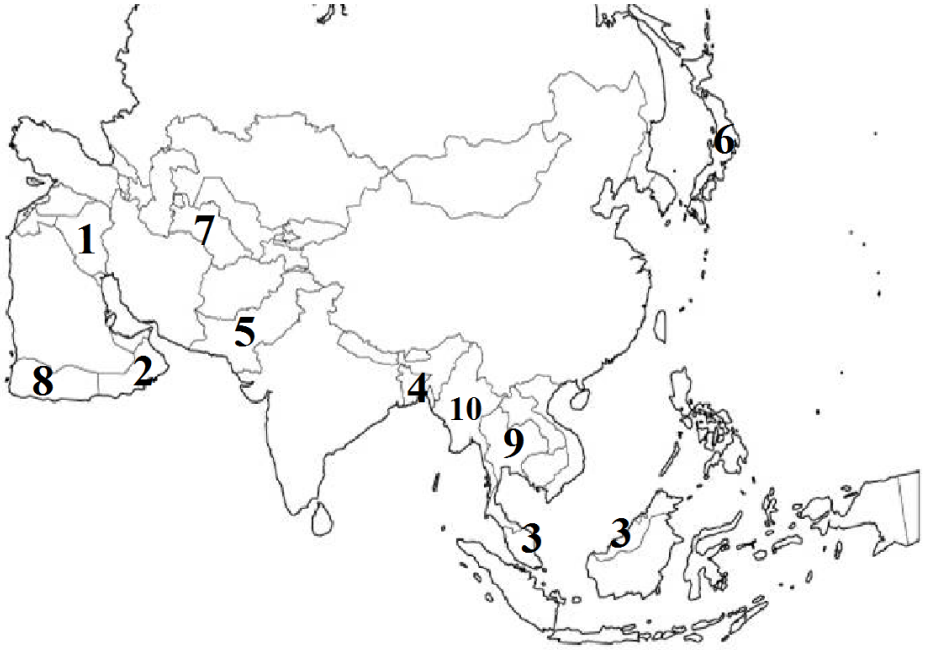

A) 5, 9

B) 8, 9

C) 8, 10

D) 1, 8

14. Отметьте страну, которая состоит из 28 штатов и 8 союзных территорий.
A) Канада B) Китай C) Индия D) Бразилия
15. Какое федеративной государство является самым маленьким в мире?
A) Сент-Люсия B) Сент-Винсент и Гренадины
C) Сент-Китс и Невис D) Тринидад и Тобаго
16. На какой широте находится самая солёная часть вод Тихого океана?
A) Умеренные широты B) Тропики C) Субтропики D) Субарктика
17. Какую культуру выращивают в больших количествах в таких странах, как Кот-д'Ивуар, Гана и Индонезия?
A) Сахарный тростник B) Чай C) Кофе D) Какао
18. К какой группе государств относятся Албания, Литва, Монако, Нидерланды, Словения и Черногория по своему географическому положению?
A) Островные государства B) Полуостровные государства
C) Приморские континентальные государства D) Внутриконтинентальные государства
19. Какой город в Германии является крупнейшим аэропортом в Европе и главным финансовым центром?
A) Гамбург B) Мюнхен C) Кёльн D) Франкфурт-на-Майне
20. Какая из перечисленных стран является парламентской республикой по форме правления и федерацией по государственному устройству?
A) Корея B) Китай C) Индия D) Япония
21. Какое из следующих морей является устьем реки Дунай?
A) Баренс B) Северный C) Чёрное море D) Балтийский
22. В какой стране проживает наибольшее количество католиков в мире?
A) Италия B) Франция C) Бразилия D) США
23. В каком климатическом зоне расположены полуостров Флорида и Гавайские острова?
A) умеренный B) субтропический C) тропический D) субэкваториальный
24. Каким морем на востоке омываются побережья Арабской Республики Египет?
A) Аравийское море B) Красное море C) Средиземное море D) Черное море
25. Какой город является крупнейшим центром химической промышленности США?
A) Хьюстон B) Чикаго C) Сан-Франциско D) Лос-Анджелес

3-часть: Каждое задание оценивается по 3,4 баллов.

26. Какая регион США считается регионом садоводства?
A) Север Центральных равнин B) Юг бассейна Миссисипи
C) Калифорния D) Великие равнины, расположенные у подножия Кордильер

27. В каких районах Мирзачульского экономического района развита птицеводческая отрасль?
A) В местах, где выращивают бахчевые культуры
B) В местах, где выращивают кормовые культуры
C) В местах, где выращивают технические культуры
D) В местах, где выращивают зерновые культуры

28. Прочитайте текст.
Берега сильно изрезаны. На восточных и северных побережьях материка особенно много заливов и полуостровов, на западных и южных побережьях их гораздо меньше. Был частью древнего Лавразийского материка. В строении поверхности материка большую площадь занимают равнины, а горы составляют треть территории материка.
Определите, какому материку соответствуют данные из текста.
A) Евразия B) Северная Америка C) Южная Америка D) Австралия

29. Почему в горах Сахары часто образуются трещины и сильное разрушение горных пород?
A) Из-за расположения материка в северной части
B) Из-за сильного сухого и горячего ветра самума, несущего песок и пыль
C) Из-за резкого изменения температуры днем и ночью днем температура достигает 40–50°C, а ночью падает до 0°C
D) Из-за малого количества осадков

30. Определите государства с монархической формой правления.
A) Бруней, Кипр B) Люксембург, Малайзия C) Камбоджа, Бангладеш D) Нидерланды, Португалия
31. Определите характерные особенности природной зоны, выделенной на карте.



A) В этой зоне произрастает 25 000 видов растений, в том числе 1 000 видов деревьев.

B) Здесь резко меняется температура днем и ночью, дует сухой и горячий ветер самум, несущий песок и пыль.

C) Леса в этой зоне вечно зеленые, многоярусные и очень густые. Иногда солнечные лучи не проникают даже на небольшие участки.

D) В этой зоне чередуются сухие и влажные сезоны, встречаются одиночные деревья или группы деревьев, кустарники и луга.

32. Выберите правильное описание особенностей железнодорожного транспорта.
A) Перевозит пассажиров, почту и другие грузы с самой высокой скоростью, является относительно дорогим видом транспорта.
B) Самый распространенный вид транспорта, с возможностью доставки «от двери до двери».

C) Доставляет жидкие и газообразные грузы на дальние расстояния, услуги недорогие, грузы доставляются в нужное место без задержек, оказывает минимальное воздействие на окружающую среду.
D) Перевозит большие объемы грузов на дальние расстояния, не зависит от погодных условий, транспортные услуги относительно дешевы.

33. Если температура воздуха в точке C составляет +2°C, атмосферное давление в точке B равно 710 мм Hg, а абсолютная высота точки A составляет 2000 м, то определите температуру воздуха в точке D.

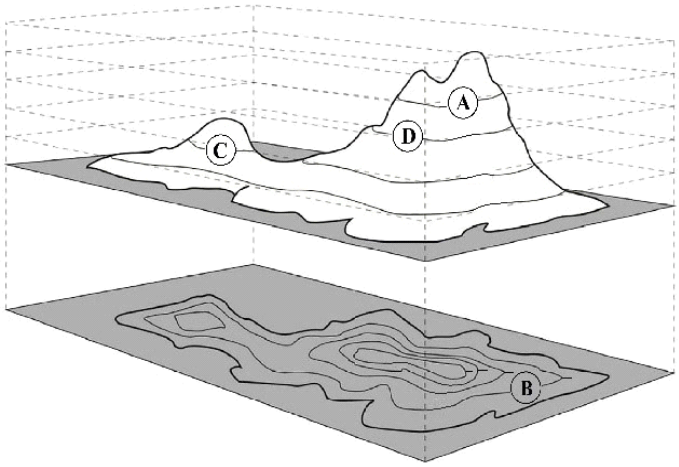

A) 0^0 C B) - 6^0 C C) - 3^0 C D) - 1^0 C

34. Какое общее свойство объединяет страны, выделенные на карте?

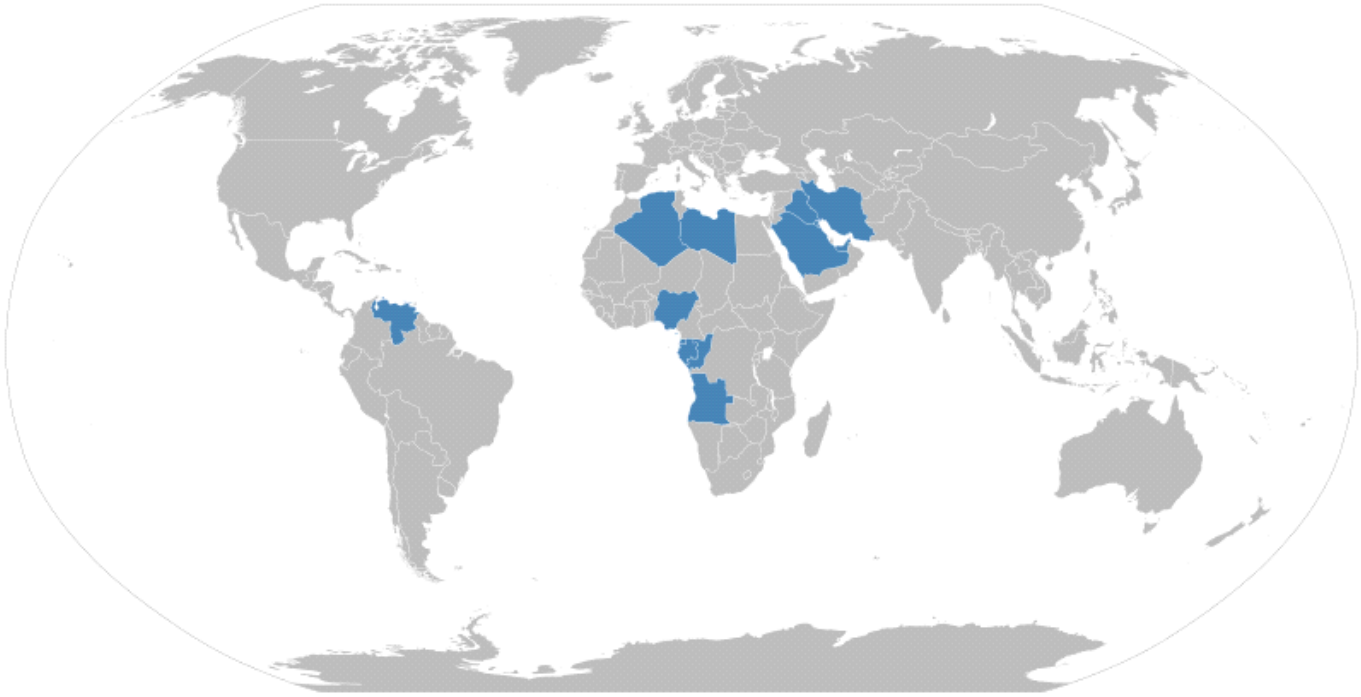

A) Все страны являются производителями чая
B) Все страны являются производителями хлопка
C) Все страны являются членами ОПЕК
D) Все страны производят наибольшее количество электроэнергии

35. Почему в Тихом океане много течений, перемещающихся по широте?

A) Из-за того, что дно океана занимает большую площадь.
B) Из-за большого количества морей в Тихом океане.
C) Из-за того, что океан простирается на большое расстояние с севера на юг.
D) Из-за того, что океан простирается на большое расстояние с запада на восток.

36. Если звук, посланный эхолотом на 3-ю горизонталь озера, изображенного на картинке, возвращается через 6 секунд, определите сколько метров составляет расстояние между горизонтальными линиями на рисунке

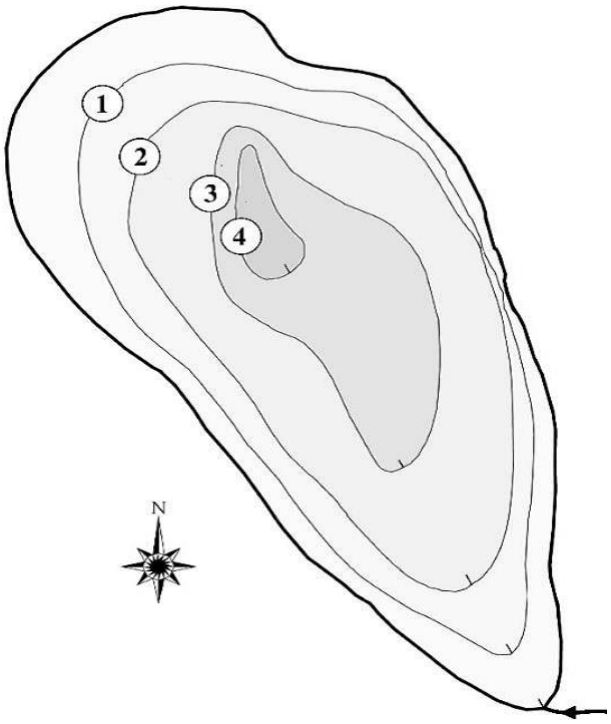

A) 1000 м
B) 1500 м
C) 2000 м
D) 2500 м

37. Укажите правильный список крупнейших рек Передний Азии.
1) Колыма; 2) Днепр; 3) Аракс; 4) Урал; 5) Лысый; 6) Хатанга; 7) Карун; 8) Кура.
A) 3; 4; 5 B) 1; 7 C) 1; 2; 6 D) 3; 7; 8

38. Какая из перечисленных стран богата фосфоритами?
A) Нигерия B) ЮАР C) Марокко D) Египет

39. Какие из следующих крупных изменений произошли в палеозойскую эру?
1) образовался каменный уголь; 2) образовались молодые горы; 3) появились нынешние старые горы; 4) появились простые бактерии; 5) формируются климатические районы; 6) появились водоросли; 7) появились гигантские динозавры 8) образовались природные зоны.
A) 1; 3 B) 2; 8 C) 4; 6 D) 5; 7

40. В каком направлении поднимается поверхность Узбекистана?
A) с запада и северо-запада на восток и юго-восток
B) с запада и юго-запада на восток и северо-восток
C) восток и юг с востока на запад и северо-запад
D) с востока и северо-востока на запад и юго-запад