1-часть: Каждое задание оценивается по 1,3 баллов.

1.Откуда считается абсолютный высоты в Узбекистане?
A) От уровня Балтийского моря Атлантического океана
B) От уровня Аравийского моря Индийского океана
C) От уровня Берингова моря Тихого океана
D) От уровня Баренцева моря Северного Ледовитого океана

2. Какими цифрами обозначены на рисунке Южноамериканская и Тихоокеанская литосферные плиты?

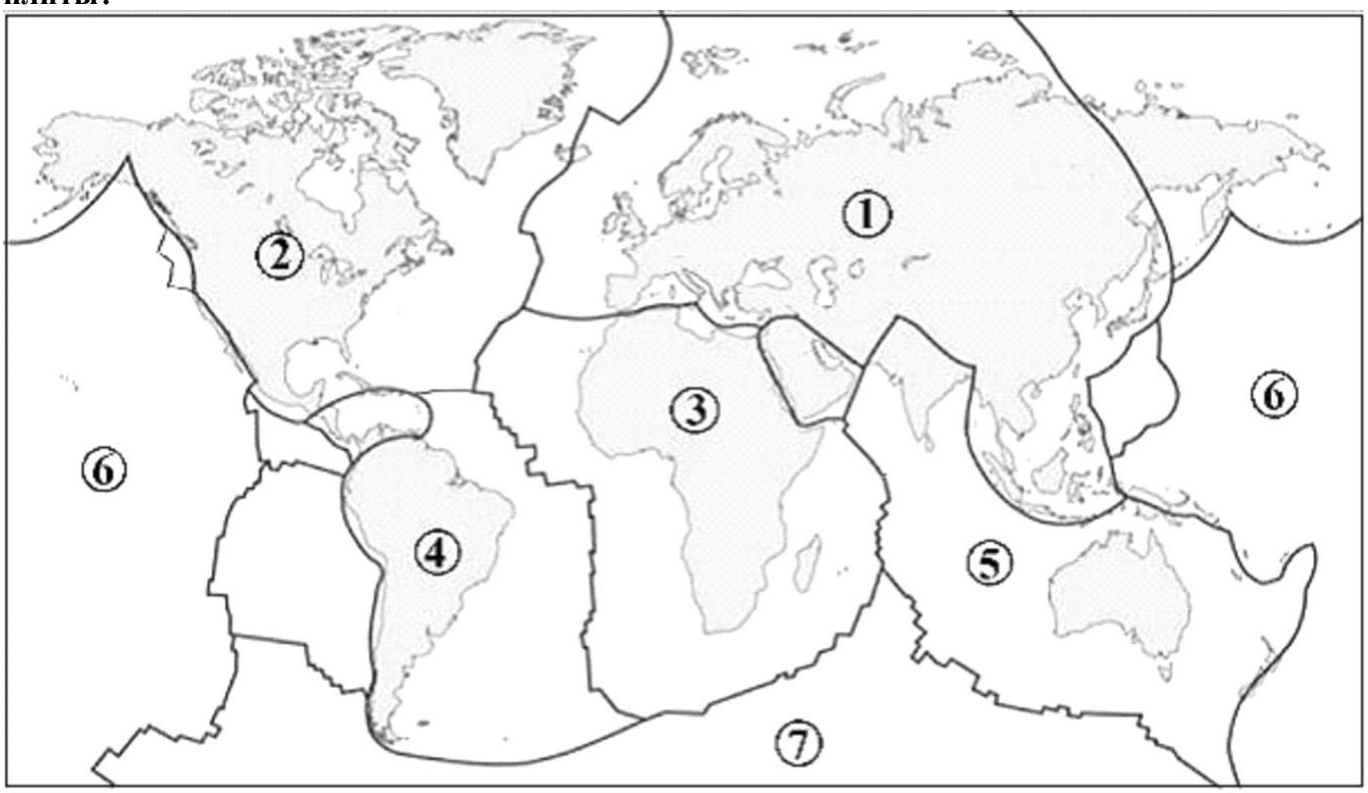

A) 1 и 2 B) 7 и 5 C) 3 и 5 D) 4 и 6

3. Если глубина моря составляет 7500 метров, за какое время звуковая волна, отправленная эхолотом, достигнет дна?
A) 5 секунд B) 7,5 секунд C) 10 секунд D) 15 секунд

4. Какой пролив соединяет Атлантический океан со Средиземным морем?
A) Ла-Манш B) Дарданеллы C) Баб-эль-Мандеб D) Гибралтар

5. Как называются экваториальные леса в Южной Америке?
A) парамос B) пампа C) патагонские леса D) сельва

6. Как называется форма производства, в которой участвует несколько предприятий для изготовления готового продукта?
A) кооперирование B) комплекс C) специализация D) централизация

7. Какой климатический регион занимает большую площадь в Австралии?
A) субэкваториальный B) тропический C) субтропический D) умеренный

8. Какое из следующих озёр является плотинным озером?
A) озеро Байкал B) Каспийское море C) Мёртвое море D) озеро Сарез

9. В каком ответе географические координаты точки А на рисунке указаны правильно?

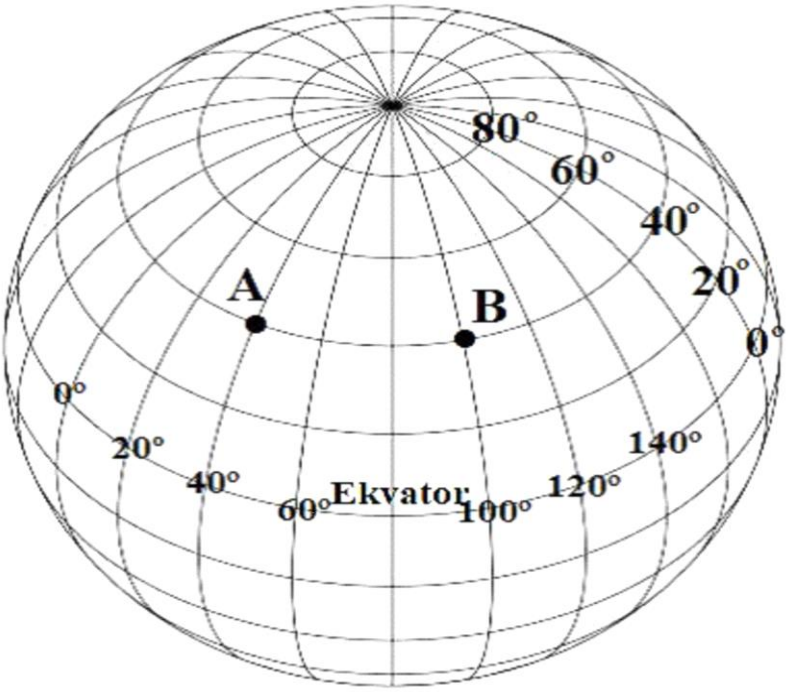

A) 40° северной широты и 40° восточной долготы
B) 40° южной широты и 40° западной долготы
C) 40° северной широты и 40° западной долготы
D) 40° южной широты и 40° восточной долготы

10. Какое озеро расположено на севере Южноамериканского материка?
A) Титикака B) Поопо C) Маракайбо D) Патус

2-часть: Каждое задание оценивается по 2,4 баллов

11. Выделите правильный ответ, где указаны плоскогорья.
1) Среднесибирское; 2) Амазонская; 3) Западно-Сибирская; 4) Бразильское; 6) Анды; 7) Кордильеры; 8) Восточно-Европейская; 9) Туранская; 10) Тянь-Шань.
A) 1; 3 B) 1; 9; 10 C) 1; 4 D) 2; 6

12. Какие из перечисленных стран относятся к группе развивающихся стран?
A) Китай и Япония B) Пакистан и Индия C) Китай и Индия D) Индонезия и Индия

13. В какой части Евразии и Северной Америки тундра занимает огромные площади?
A) северная B) южная C) западная D) восточна

14. Какая впадина расположена на юго-востоке плато Устюрт?
A) Барсакельмес B) Асака-Овдан C) Сарыкамыш D) Каракия

15. Кто определил, что «Масса горных пород, приносимых реками (крупность и малость) пропорциональна скорости течения воды»?
A) Мухаммад ибн Муса аль-Хоразмий B) Абу Райхан Беруни
C) Захириддин Мухаммад Бабур D) Ахмад аль-Фарганий

16. Какими государствами считаются Саудовская Аравия, Испания, Италия, Норвегия, Республика Корея и Вьетнам с точки зрения их географического положения?
A) островные государства B) полуостровные государства
C) прибрежные континентальные государства D) внутренние континентальные государства

17. Выделите правильный ответ, в котором указаны отрасли тяжелой промышленности.
1) топливная; 2) издательская; 3) текстильная; 4) электроэнергетическая; 5) обувная; 6) производство строительных материалов; 7) химическая.
A) 1; 2; 5; 6 B) 1; 2; 4; 6 C) 1; 3; 4; 7 D) 1; 4; 6; 7

18. Какой вид транспорта работает независимо от климатических условий и времени года?
A) водный B) железнодорожный C) автомобильный D) воздушный

19. В какой области нашей страны создано крупнейшее подземное газохранилище?
A) Кашкадарья B) Навои C) Андижан D) Хорезм

20. В каком ответе правильно указана религия, которая является основным источником веры в Восточной и Юго-Восточной Азии?
A) христианство B) ислам C) буддизм D) индуизм

21. Какое из следующих морей является устьем реки Лены?
A) Баренс B) Кара C) Лаптевы D) Восточная Сибирь

22. Какой цифрой обозначен Гиссарский хребет на карте ниже?

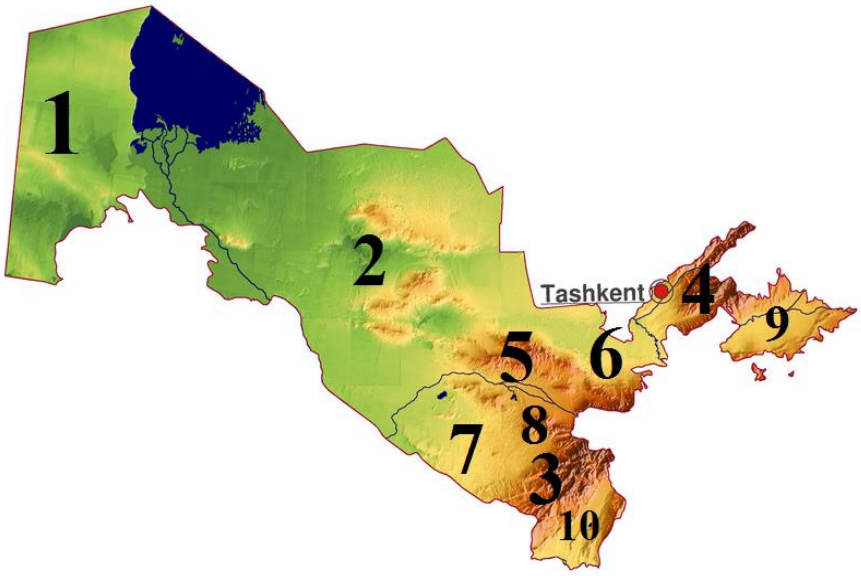

A) 3 B) 4 C) 5 D) 6

23. Какой путешественник открыл Большой Барьерный риф на востоке Австралии?
A) Джордж Басс B) Мэтью Флиндерс C) Абель Тасман D) Луис Торрес

24. Охраняемые территории какого континента составляют 1%?
A) Северная Америка B) Евразия C) Южная Америка D) Африка

25. Какой из следующих городов был основан в связи с постройкой тепловая электростанция?
A) Беруни B) Когон C) Зарафшан D) Тахиаташ

3-часть: Каждое задание оценивается по 3,4 баллов

26. В каком из следующих городов расположены заводы по производству суперфосфата, электрического машиностроения и текстильного машиностроения?
A) Фергана B) Кувасай C) Коканд D) Маргилан

27. В каких районах экономического региона Мирзачуль развита птицеводство?
A) В местах, где выращиваются овощные культуры
B) В местах, где выращиваются кормовые культуры
C) В местах, где выращиваются технические культуры
D) В местах, где выращиваются зерновые культуры

28. Укажите правильный ответ из следующих утверждений.
A) Параллельные линии на глобусе и картах обозначают географическую широту
B) Меридианные линии на глобусе и картах обозначают географическую широту
C) Параллельные линии на глобусе и картах обозначают географическую долготу
D) Полюса на глобусе и картах обозначают географическую долготу

29. Какая из следующих причин была учтена при создании Боснии и Герцеговины как федеративного государства?
A) Особенности исторического развития B) Огромный размер территории
C) Распределение территории D) Многонациональность населения

30. Прочитайте текст.

Эта река в среднем течении является равнинной рекой, но в верхнем и среднем течениях много порогов и водопадов. Значительная часть реки протекает по засушливым землям. Поэтому вода реки имеет большое значение для орошения земель. Для этой цели на реке построены плотины, прорыты каналы и осуществлено отвод воды.

Определите, к какой реке на картинке ниже относится информация, данная в тексте.

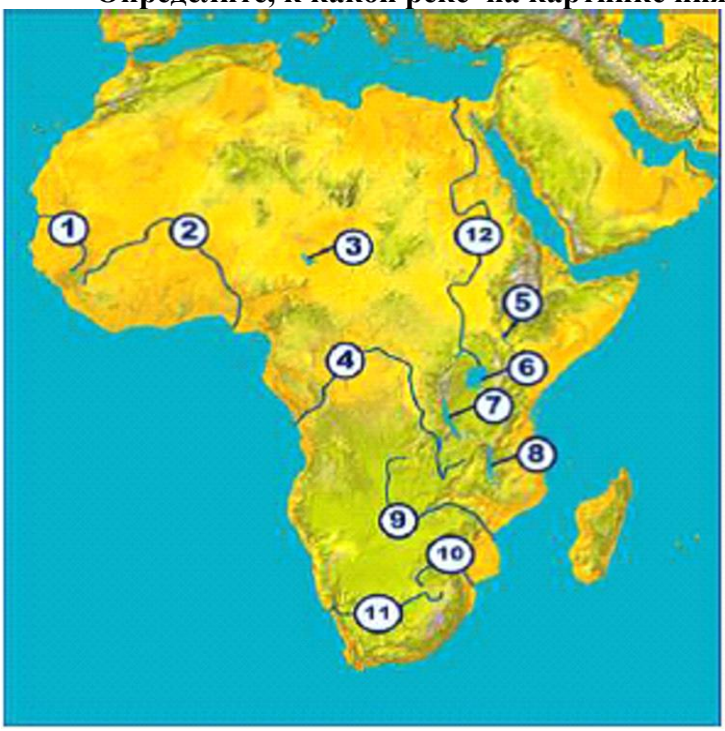

A) 1 B) 2 C) 4 D) 11

31. В каких регионах появились первые люди и какие территории освоили первыми?
A) Северо-восточная и Восточная Азия, Южная Европа
B) Северо-восточная и Восточная Европа, Южная и Древняя Азия
C) Северо-восточная и Восточная Европа, Южная Африка и Древняя Азия
D) Северо-восточная и Восточная Африка, Южная Европа и Древняя Азия

32. В каком регионе коэффициент естественного прироста населения выше мирового среднего показателя?
A) Австралия и Океания B) Азия C) Америка D) Африка

33. По какому из перечисленных показателей Ферганский экономический район занимает первое место среди экономико-географических регионов??
A) По запасам топлива и гидроэнергетических ресурсов
B) По доле полиметаллических руд и минеральных удобрений
C) По орошаемым землям, скоту и численности населения
D) По численности, плотности населения и доле рабочей силы

34. Прочитайте текст.

В области хорошо развита сельское хозяйство. Практически не осталось освоенных земель. Общий сбор хлопка увеличивается только за счет повышения урожайности. Овощи, картошка и бахчевые культуры в основном выращиваются в окрестностях городов. Садоводство занимает значительное место в сельском хозяйстве. Сады и виноградники расширяются за счет горных склонов. Существуют специализированные садоводческие хозяйства.

Определите, к какому региону относятся данные, представленные в тексте.
A) Фергана B) Самарканд C) Андижан D) Кашкадарья

35. Прочитайте текст.

Эта зона расположена в субэкваториальных климатических регионах на низменностях и плоскогорье. На пастбищах в этой зоне Северного полушария растут пальмы и акации. В южном полушарии деревьев мало. В центральной части плато Бразилии засушливое, здесь растут небольшие деревья, древовидные кактусы.

Определите, к какой природной зоне относится информация данная в тексте, и под каким номером обозначена на карте ниже.

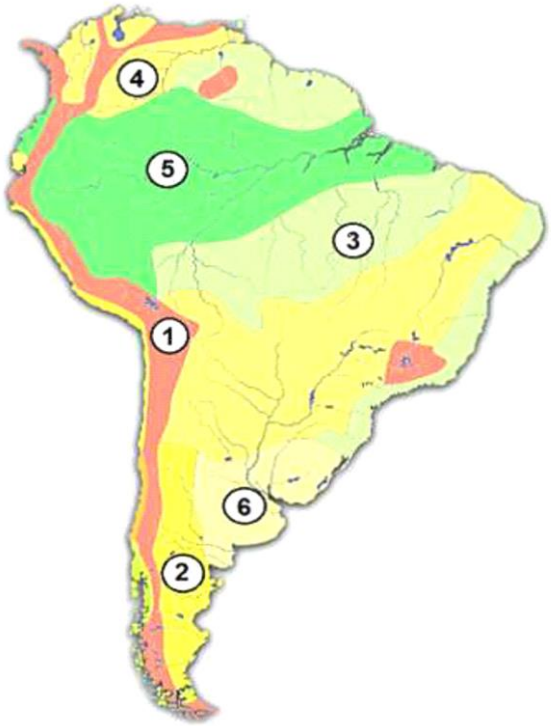

A) 3 B) 4 C) 5 D) 6

36. На карте, где равнины обозначены цифрами, какие из них считаются молодыми по возрасту?

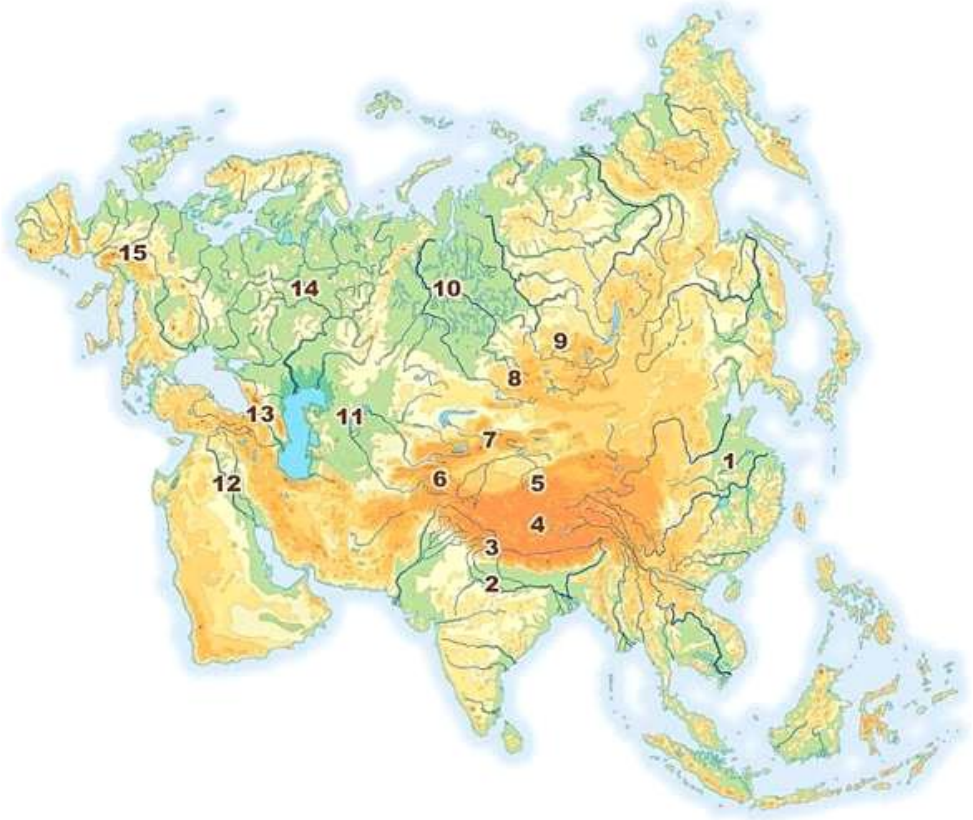

A) 1; 10; 14 B) 1; 12; 14 C) 2; 11; 14 D) 2; 10; 11

37. Какие из следующих крупных изменений произошли в кайнозойскую эру? *1) образовался каменный уголь; 2) образовались молодые горы; 3) появились нынешние старые горы; 4) появились простые бактерии; 5) формируются климатические районы; 6) появились водоросли; 7) появились гигантские динозавры 8) образовались природные зоны.*

A) 1; 5; 7 B) 2; 5; 8 C) 3; 4; 6 D) 1; 3; 7

38. Какие земли составляют 3% земельного фонда мира?

A) земли, используемые в сельском хозяйстве
B) леса
C) земли, занятые населенными пунктами и инженерными сооружениями техногенные земли
D) малоиспользуемые бесплодные земли

39.Какая из следующих стран не входит в группу развивающихся стран?

A) Индия B) Индонезия C) Бразилия D) Мексика

40. Какой из перечисленных островов не расположен в Атлантическом океане?

A) Корсика B) Крит C) Сокотра D) Сицилия